DIBUJAR LAS CIRCUNFERENCIAS QUE PASAN POR LOS PUNTOS A Y B Y SON TANGENTES A LA RECTA r.(PPr)
DOS SOLUCIONES

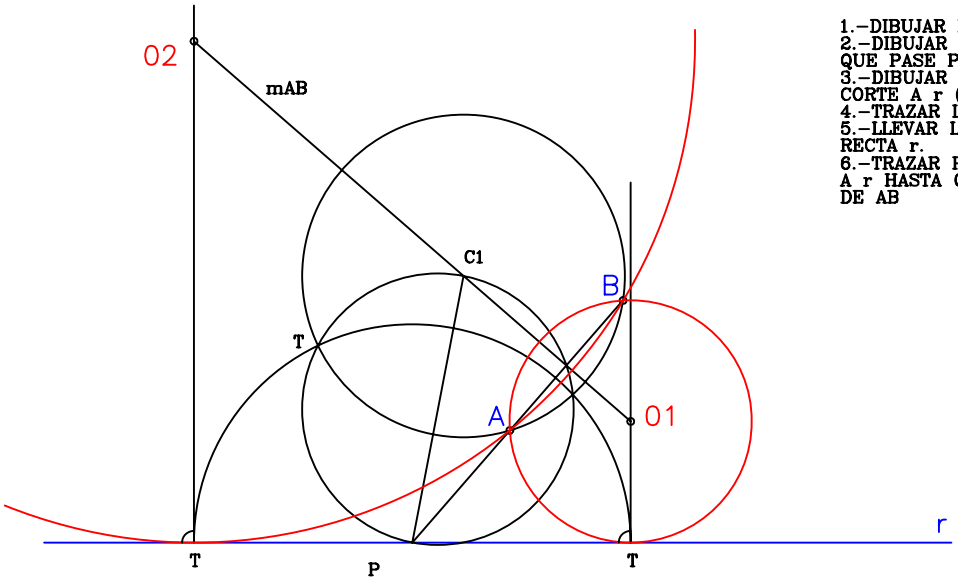

1.–DIBUJAR LA MEDIATRIZ DE AB.
2.–DIBUJAR UNA CIRCUNFERENCIA AUXILIAR QUE PASE POR LOS PUNTOS A Y B (C1)
3.–DIBUJAR LA RECTA AB HASTA QUE CORTE A r (P).
4.–TRAZAR LA TANGENTE DESDE P A C1.
5.–LLEVAR LA DISTANCIA PT SOBRE LA RECTA r.
6.–TRAZAR POR ESTOS PUNTOS PERPENDIC. A r HASTA QUE CORTEN A LA MEDIATRIZ DE AB

DIBUJAR LAS CIRCUNFERENCIAS QUE PASAN POR LOS PUNTOS A Y B Y SON TANGENTES A LA CIRCUNFERENCIA C1.(PPc)
DOS SOLUCIONES

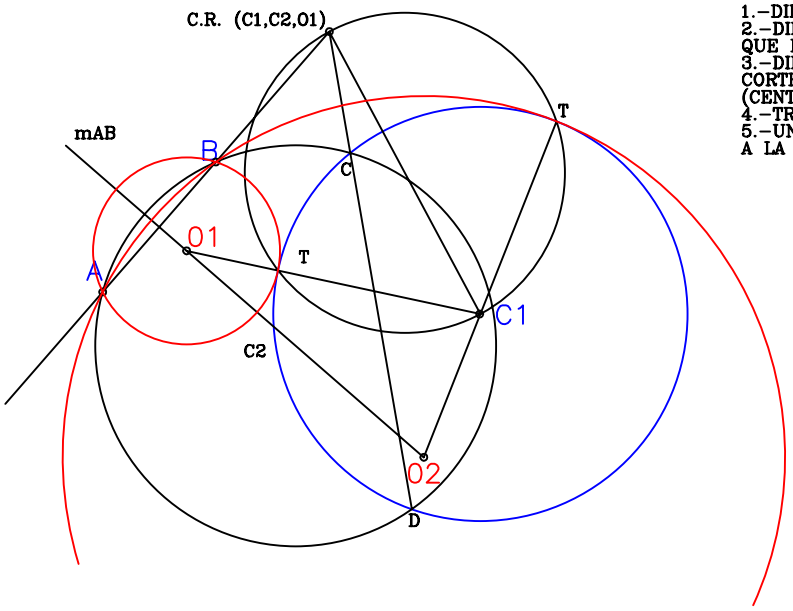

1.–DIBUJAR LA MEDIATRIZ DE AB.
2.–DIBUJAR UNA CIRCUNFERENCIA AUXILIAR QUE PASE POR LOS PUNTOS A Y B (C2)
3.–DIBUJAR LA RECTA AB HASTA QUE CORTE A LA RECTA QUE PASA POR C Y D (CENTRO RADICAL)
4.–TRAZAR LA TANGENTE DESDE C.R. A C1.
5.–UNIR C1 CON T HASTA QUE CORTEN A LA MEDIATRIZ DE AB.

DIBUJAR LAS CIRCUNFERENCIAS QUE PASAN POR EL PUNTO A Y SON TANGENTES A LAS RECTAS r Y s.(Prr)
DOS SOLUCIONES

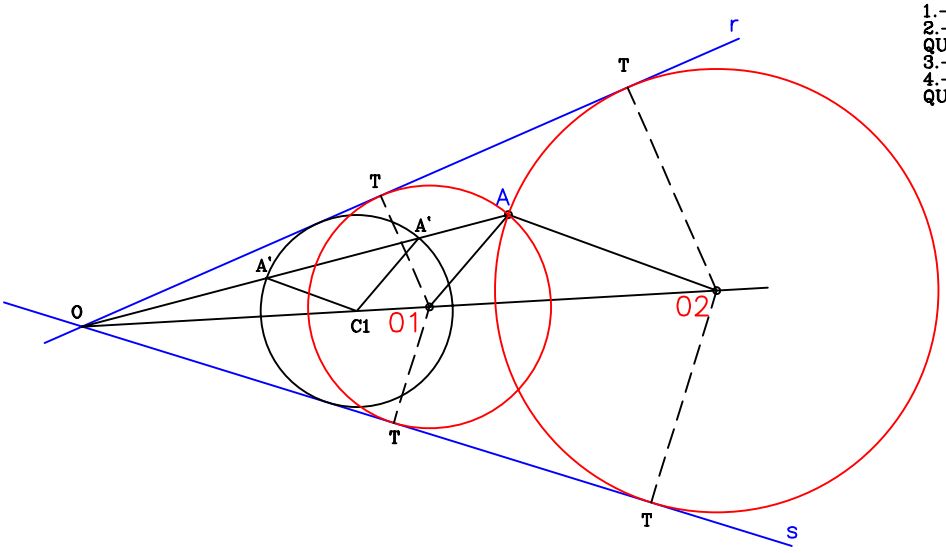

1.–DIBUJAR LA BISECTIRZ r Y s.
2.–DIBUJAR UNA CIRCUNFERENCIA AUXILIAR QUE SEA TANGENTE A r Y s (C1)
3.–UNIR O CON A.
4.–TRAZAR POR A PARALELAS A A'C1 HASTA QUE CORTE A LA BISECTRIZ.